Formen erkennen

Mathematik · Klasse 1 · mittel · Lösungen

vitus-tutoring.de

kostenlos, mit Lösungen

Name: _____ Datum: _____

1 Wie heißt die Form?

Dreieck: 3 Ecken. Viereck: 4 Ecken. Kreis: keine Ecke.



a) *Quadrat*



b) *Rechteck*



c) *Dreieck*

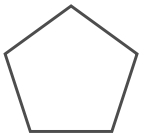

d) *Fünfeck*

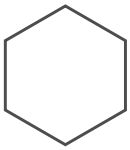

e) *Sechseck*



f) *Kreis*

2 Ergänze die Sätze.

Zähle die Ecken und Seiten.

a) Ein Dreieck hat *3* Ecken und *3* Seiten.

b) Ein Quadrat hat *4* gleich lange Seiten.

c) Ein Kreis hat *0* Ecken.

d) Ein Sechseck hat *6* Ecken.

e) Ein Rechteck hat *4* Ecken.

3 Wie viele Seiten hat die Form?

a) Dreieck *3*

b) Viereck *4*

c) Fünfeck *5*

d) Sechseck *6*